DECOUVERTE DE MON ESPACE PROCHE …... SARTILLY

A) Localisation et quelques chiffres
Fichier kmz Sartilly voir consignes.

Q1 :

_____

Q 2 :

_____

Q3 :

_____

Q4 :

_____

Q5 :

_____

Q6 :

_____

Q7 :

_____

8. Se connecter au sur le site commune.com en utilisant l'adresse suivante:
http://www.communes.com/basse-normandie/manche/sartilly_50530/

Compléter la fiche de localisation en indiquant la région et le département où est située la commune de Sartilly à partir du menu

Nombre d'habitant	**Superficie**	**Densité de population**

Département :

_____

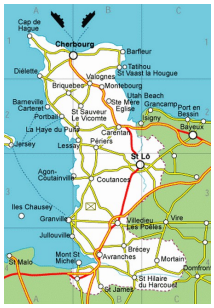

Région :

_____

Pays :

_____

9. A l'aide de vos connaissances et des planisphères de votre manuel pages 248/249, compléter la fiche ci-dessous

Revenu par habitant du pays : Elevé ☐ Moyen ☐ Faible ☐

Domaine climatique : _____ Climat :_____ Relief :_____

B) Etude d'un paysage
Carte postale Sartilly (début années 80)



1. Regarder cette photographie et noter dans la colonne de gauche du tableau ci-dessous au moins six éléments observés.
2. En face de chaque élément observé, noter dans la colonne du milieu comment on pourrait le représenter en langage cartographique.

Eléments du paysage	Représentation cartographique	Correction

Croquis du paysage de Sartilly

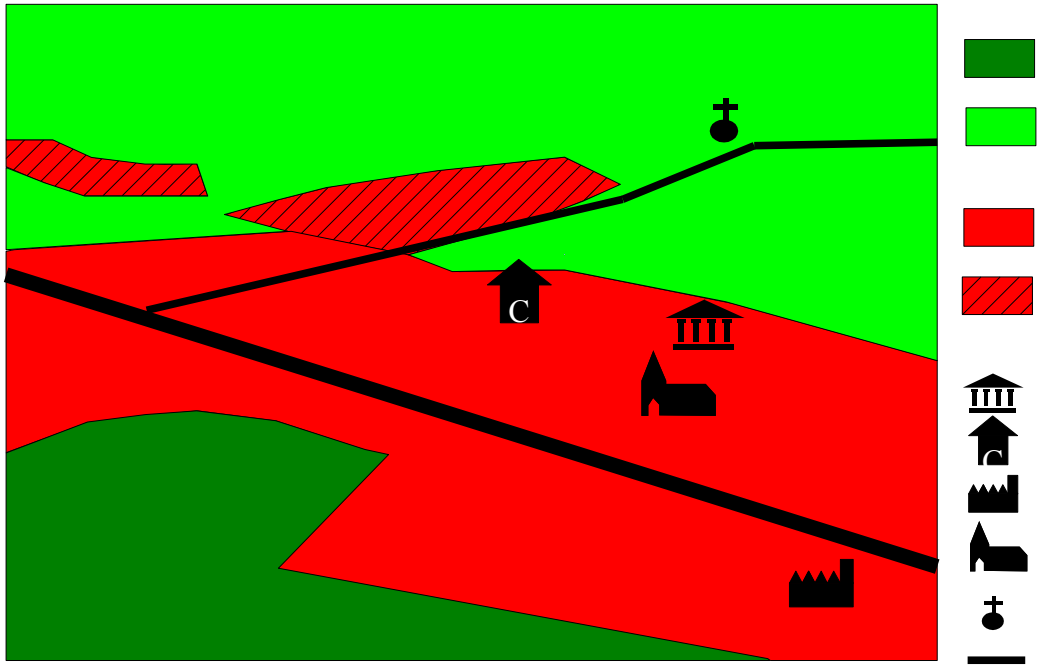

3.. A l'aide des noms suivants compléter la légende en mettant les trois titres (soulignés) et les mots ou expressions au dessus ou en face des bons figurés. Il faut pour cela sélectionner le cadre, faire apparaître la croix, cliquer sur le bouton gauche de la souris et maintenir enfoncé. Ensuite il faut faire glisser le cadre jusqu'à sa place dans la légende.

Espaces non bâtis | **Bois** | **Champs : bocage** | **Espaces bâtis** | **Habitat ancien**

Bâtiment industriel | **Collège** | **Mairie** | **Principaux édifices** | **Habitat récent**

Route | **Cimetière** | **Eglise**